Охотник прошёл от своей палатки 10 км на юг, повернул на восток, прошёл прямо на восток ещё 10 км, убил медведя, повернул на север и, пройдя ещё 10 км, оказался у палатки. Какого цвета был медведь и где всё это было?

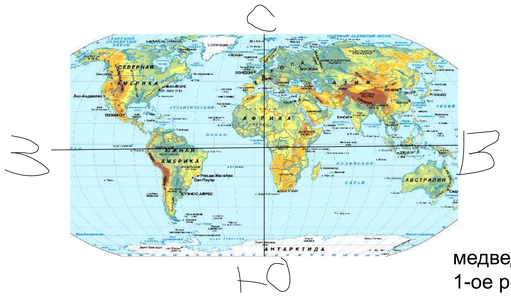

медведь белый
1-ое решение - северное полюс

Когда ты идешь на восток - ты можешь обогнуть весь земной шар



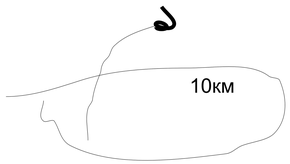

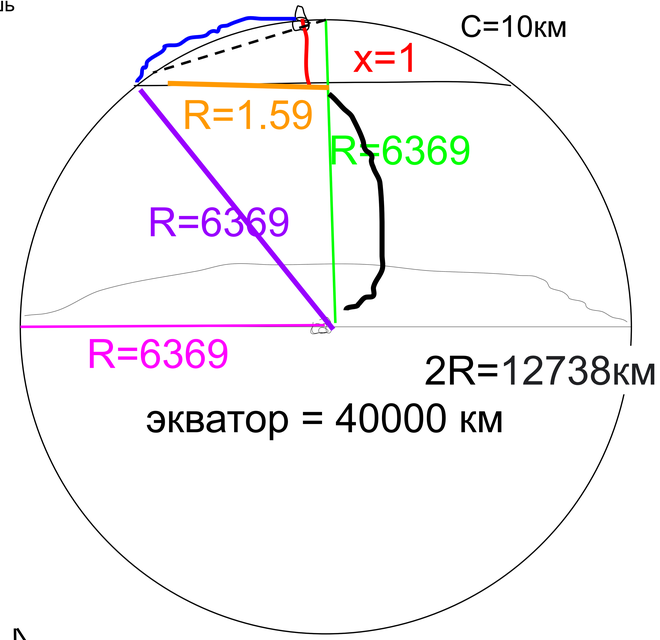

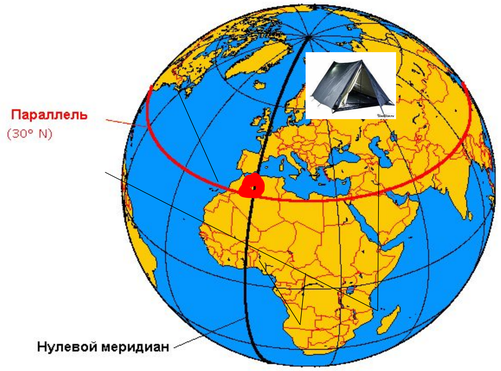

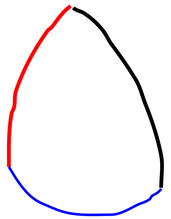

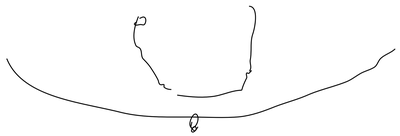

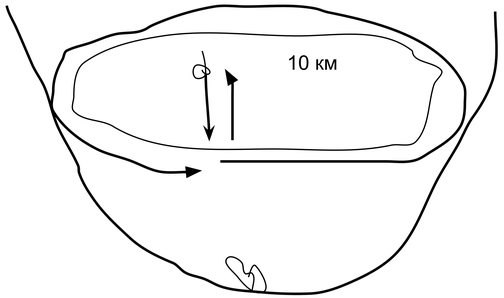

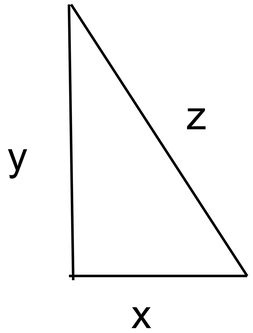

$x^2+y^2=z^2$

$x^2=z^2-y^2$

$x^2=6369^2-1.59^2$

$x^2=40564158$

$x=6368$

$1^2+1.59^2=z^2$

$3.52=z^2$

$1.87=z$

$C=2PR$

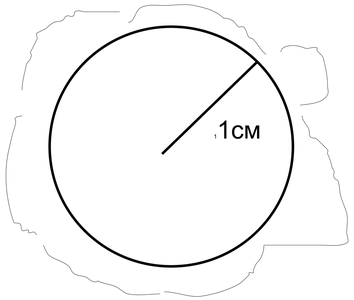

число
$P=6.28/2$

6.28

6.28123124141

$40000=6.28*R$

$R=40000/6.28$

$R=6369$

$10=6.28*R$

$R=10/6.28$

$R=1.59$

$20=5*x$

$x=20/5=4$

$x+2=5$

$x=5-2$

$x=3$