**Задание 11.**

На рисунке изображены графики функций вида $y = ax^2 + bx + c$. Установите соответствие между графиками функций и знаками коэффициентов $a$ и $c$.

**ГРАФИКИ**

А)

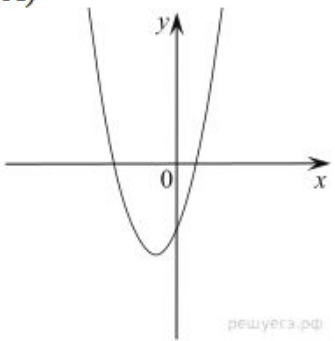


Б)

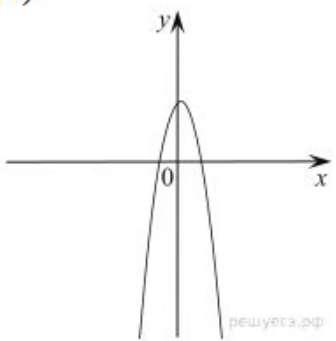


В)

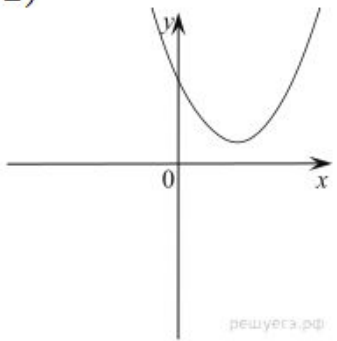


**КОЭФФИЦИЕНТЫ**

1) $a < 0, c > 0$

2) $a > 0, c > 0$

3) $a > 0, c < 0$

В таблице под каждой буквой укажите соответствующий номер.

| А | Б | В |
|---|---|---|
| | | |