а) Обойдите доску, изображенную на рисунке, побывав на каждой клетке ровно один раз. (Двигаться можно только на соседнюю по стороне клетку, начало и конец пути могут быть где угодно).
б) Можно ли совершить такой обход, если начало маршрута будет в самой правой клетке верхней горизонтали?

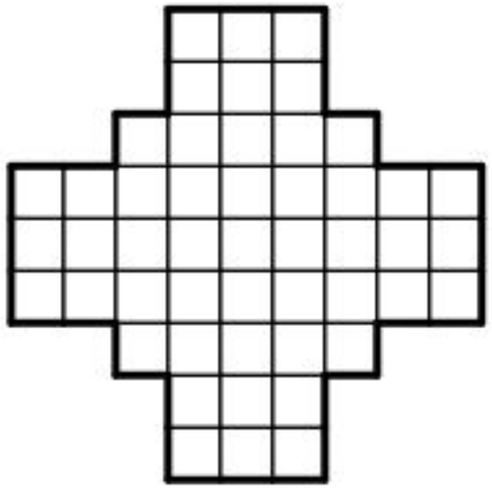

ч 24

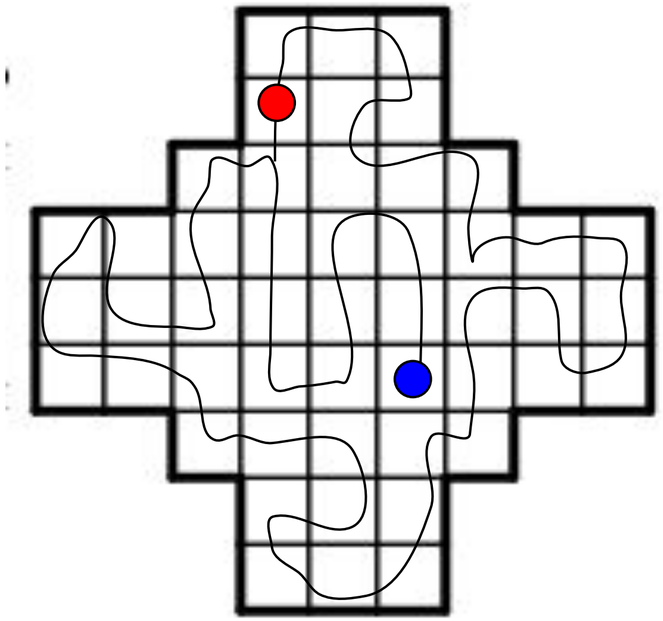

5 – б

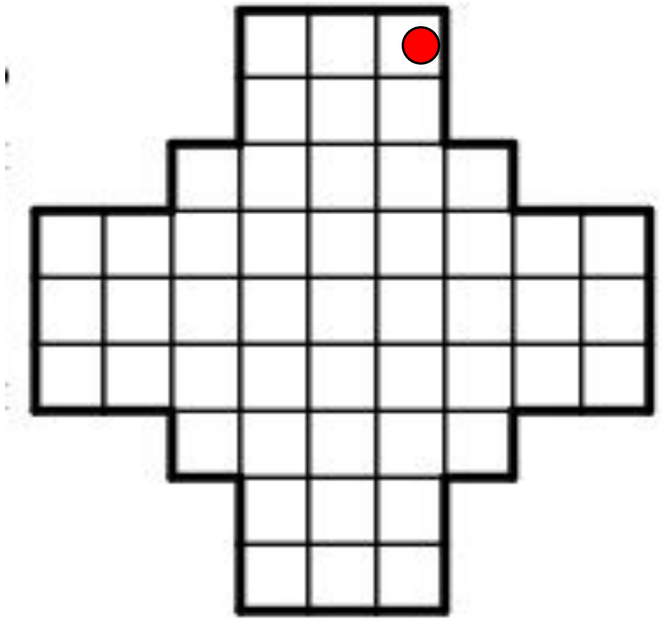

$\underbrace{чбчб\ldots чбчб}_{24ч\ 24б}$



б25

из белой в белую попасть невозможно после 24 черных и 24 белых